KIEK IŠ VISO? KIEK LIKO?

P. 2–3

1. **Kiek centų piniginėse? Nuspalvink tą, kurioje yra mažiausiai pinigų.**

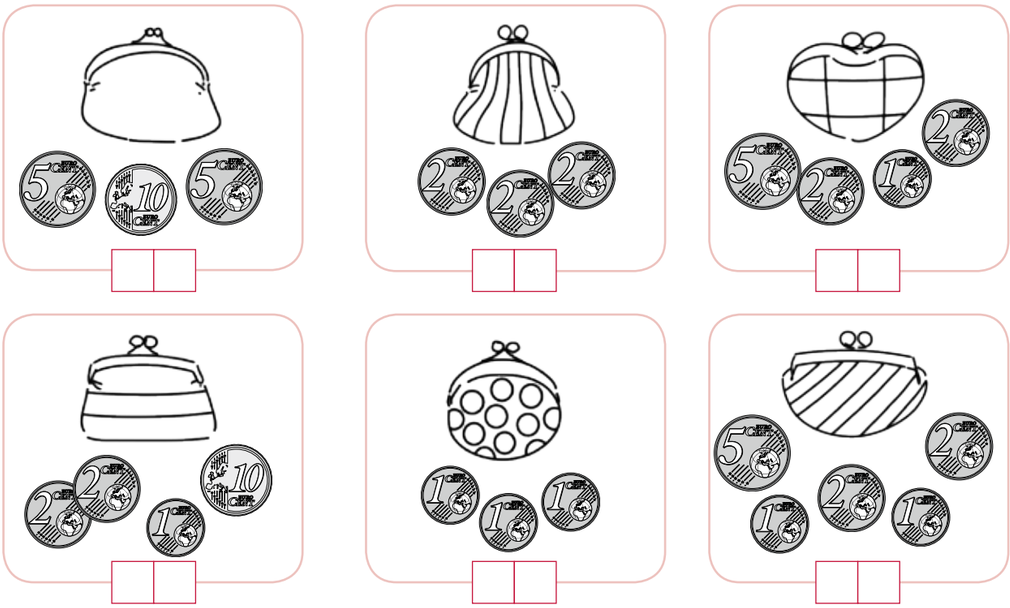

• Kiek iš viso centų yra ir piniginėse?

• Kiek iš viso centų yra , ir piniginėse?

• Kiek centų liks piniginėje, jei iš jos išimsi 5 ct?

• Kiek centų bus piniginėje, jei iš jos išimsi 10 ct ir įdėsi 6 ct?

2. **Išspręsk.**

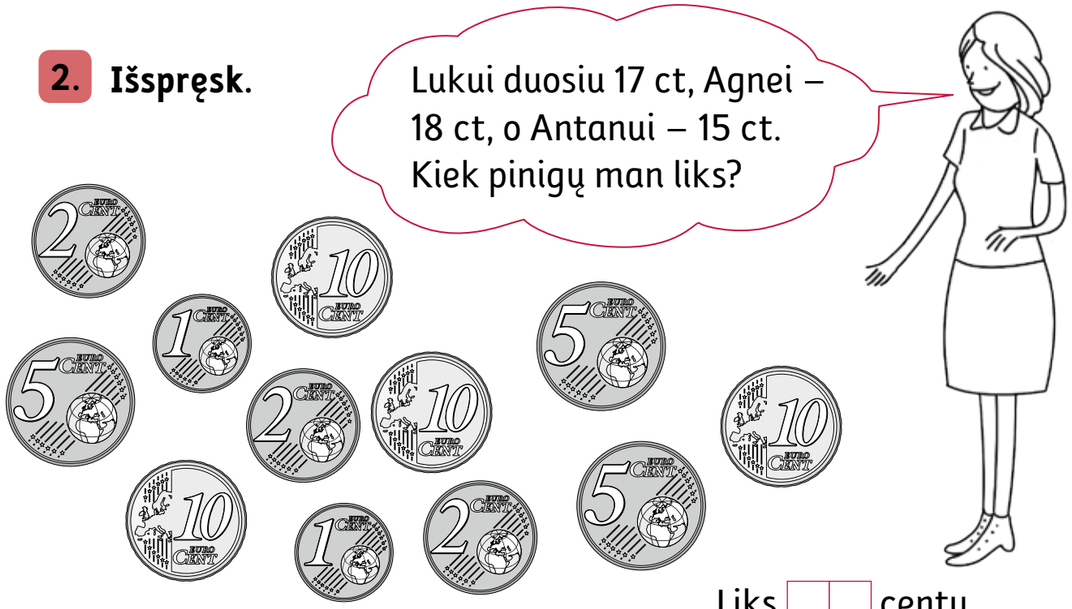

Liks ☐☐ centų.

KAIP SPRĘSTI UŽDAVINĮ?

1. **Išspręsk uždavinį remdamasis 5 uždavinio sprendimo žingsniais.**

PERSKAITAU
1 žingsnis

Viename krepšyje yra 10 kamuolių, kitame – 7. Kiek kamuolių yra iš viso?

SUPRANTU
2 žingsnis

Viename krepšyje yra ☐ kamuolių, kitame – ☐.

PLANUOJU
3 žingsnis

1. Vaizduoju tai, ką žinau:

2. Sugalvoju, kokiu veiksmu skaičiuosiu.

SPRENDŽIU
4 žingsnis

PASITIKRINU
5 žingsnis

Ar iš ☐ atėmus 7, lieka 10?

2. **Išspręsk uždavinį. Spręsdamas remkis 5 žingsniais.**

Ant vienos sienos 12 piešinių, ant kitos – 6. Kiek piešinių yra iš viso?

3. **Sugalvok ir įrašyk skaičius. Uždavinį išspręsk.**

Pieštukinėje ☐ pieštukų. Ant stalo guli ☐ pieštukai. Kiek pieštukų yra iš viso?

4. **Išspręsk uždavinį.** Kajus matavo, kiek žingsnių yra nuo virtuvės iki jo kambario: 5 žingsnius ėjo koridoriumi, tada užlipo laiptais ir žengė dar 3 žingsnius. Iš viso susidarė 19 žingsnių. Kiek žingsnių Kajus lipo laiptais?

IŠ KO SUSIDEDA UŽDAVINYS?

P. 6–7

1. **Uždavinio sąlygą pabrauk mėlyna spalva, klausimą – raudona. Išspręsk uždavinį remdamasis 5 žingsniais** (žr. puslapio apačioje).

Klasėje yra 12 kėdžių, koridoriuje – 7. Kiek kėdžių yra iš viso?

2. **Nuspalvink paveikslėliui tinkamą klausimą. Uždavinį išspręsk.**

Kiek vėjo malūnėlių liko?

Kiek vėjo malūnėlių pasiėmė Dovilė?

Kiek vėjo malūnėlių yra iš viso?



3. **Pasirink spalvą ir sujunk tinkamas uždavinio dalis. Uždavinius išspręsk. Sprendimus pažymėk uždavinių spalvomis.**

Rokas turi 10 ct. → Jonė turi 4 ct. → Kiek centų turi abu vaikai?

Rimas turi 14 ct.

Pametė 2 ct.

Monika – 5 ct.

Kiek centų liko?

Atidavė 5 ct.

Rytis turėjo 15 ct.

10 + 4 = 14

AR JAU MOKU?

P. 8–9

1. **Įrašyk trūkstamus skaičius.**









2. **Išspręsk uždavinį. Spręsdamas remkis 5 žingsniais** (žr. puslapio apačioje).

Miglė nubraižė 12 trikampių, Orestas – 7. Kiek trikampių nubraižė vaikai?

3. **Sudaryk 3 uždavinius. Kiekvieno uždavinio sąlygą ir klausimą nuspalvink ta pačia spalva.**
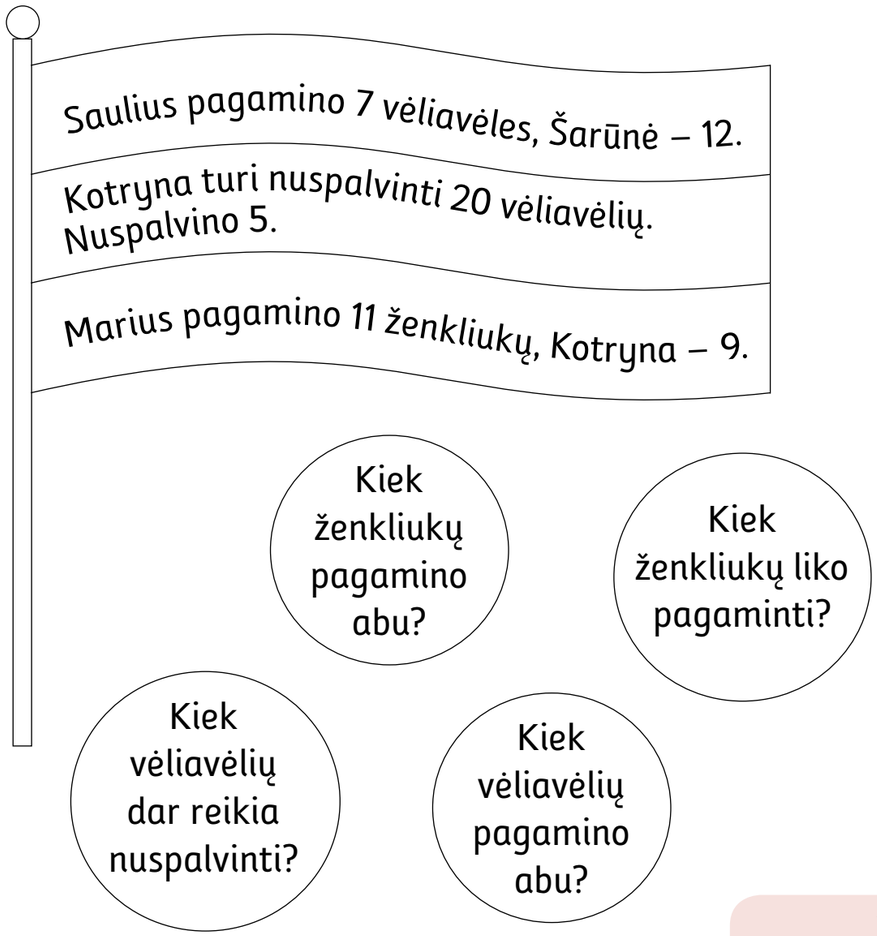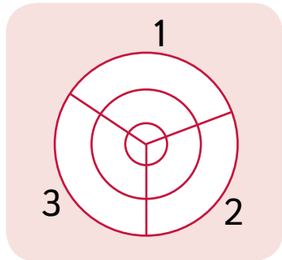
• Pasirink vieną uždavinį ir jį išspręsk.